www.students.ma

الرياضيات

مراقبة مستمرة رقم 2

الاســـم: .....
التـاريـخ: .....
الـفـوج: .....
الـمستوى: الثاني ابتدائي

الـملاحظـة	الإدارة	الأب أو الولي

الأسدس الأول

فوج A

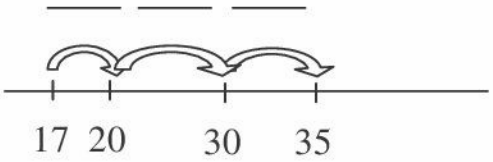
1 / أكمل:

6 + ... = 11 30 + . = 34

30 + ... = 40 40 + 2 = ...

1

2/ أحسب:



. + . + . = .

1.5

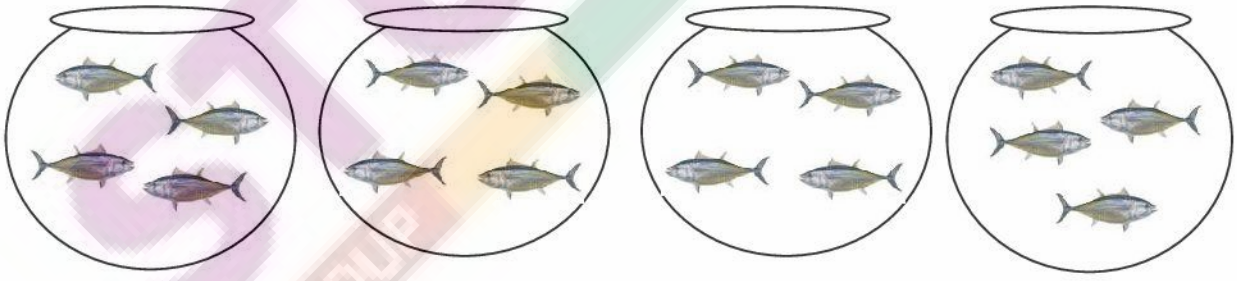
35 - 17 = .

3 / أكتب الأرقام الناقصة مكان النقط:

	3	2		3	.
+			+		
	.	.		2	3
	4	6		.	4

1

4/ أحسب عدد الأسماك بطريقتين مختلفتين:



. + . + . + . = . x . = .

1

5 / ألون بنفس اللون البطاقات التي تمثل نفس العدد:

4 + 4 + 4	30	4 x 3	10 x 3	
2 x 5	12	10 + 10 + 10	2 + 2 + 2 + 2 + 2	

1.5

www.students.ma

www.students.ma


7/ لربح المباراة يجب اسقاط قارورتين أو ثلاث قارورات مجموعها 60 نقطة.

أوجد الحلول الممكنة:

.....

.....

.....



8/ لاحظ القطع النقدية التي وفرها كل طفل:

كريم	أحمد	هند	سعاد
			
.....	.....	.....	.....

1.5

أ- أحسب المبلغ الذي وفره كل طفل:

ب- أكتب اسم الطفل الذي وفر المبلغ الأكبر: .....

2

ج- من يستطيع شراء الهدية؟ .....



30 درهما

www.students.ma