www.students.ma

النشاط العلمي

المراقبة المستمرة 2 الأسدوس الثاني

الاسم الكامل: .....
التاريـــــخ: .....
الفـــــوج: .....
القســـــم : الثالث ابتدائي


الملاحظة	الإدارة	الأب/ الولي
10		

تعرف أوساط و أنماط التنقل عند الحيوانات

معرفة

1 / أصل كل حيوان بنمط تنقله: 2






يعوم • يقفز • يطير • يزحف

فـهـم


2/ أملأ الجدول : فيل - دلفين - عصفور - غزال - خفاش - أسماك 1.5

وسط بري	وسط مائي	وسط هوائي
.....	.....	.....
.....	.....	.....
.....	.....	.....

3 /أملأ الفراغ بماينـاسب: مجدافية - راحية 1

للبطة رجل ..... تمكنها من العوم أما السلحفاة اليحرية فتسبح بفضل توفرها على أطراف أمامية .....

4 / أرتب مراحل الطيران بترقيمها من 1 إلى 4: 1






www.students.ma

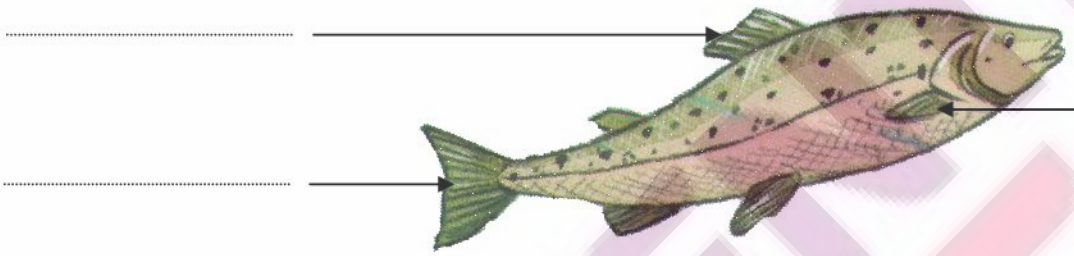
www.students.ma

5 / أجيب ب : نعم أو لا :

- للسمكة زعانف تمكنها من العوم . .....
- الجناح عند النسر طرف أمامي مكسو بالريش . .....
- الحيوانات التي تقفز لها أطراف خلفية أقصر من الأطراف الأمامية. .....
- تتنقل الحيوانات في الوسط البري مشيا أو جريا أو قفزا أو زحفا . .....

2

6/ أكتب الاسم المناسب:



1

العنوان: .....

تعرف الأجسام العاكسة و غير العاكسة للضوء :

معرفة

7 / أصل بخط :

- جسم عاكس للضوء
- الزجاج الشفاف
- جسم غير عاكس للضوء

0.5

فـهـم

8 / لماذا تظهر صورة البنت على المرآة؟



.....

.....

1

www.students.ma